HISTORIA-REVISION-TERCEROSAB-OA7-SEMANA10

GUÍA DE HISTORIA GEOGRAFÍA Y CIENCIAS SOCIALES 3°AB

Profesora Bárbara Gómez – Valeska Tobar

Nombre:	**Curso:**	**Fecha:**
Objetivo de la clase: Recordar y ejercitar líneas de referencia, continentes y océanos en guía de trabajo. **OA7** Distinguir hemisferios, círculo del Ecuador, trópicos, polos, continentes y océanos del planeta en mapas y globos terráqueos**.**	3 año A y B	Semana 10

¡Buenos días mis queridos niños! Espero que se encuentren muy bien junto a sus familias, en la guía de hoy haremos un breve repaso de las preguntas más descendidas de la evaluación formativa.

A continuación, vamos a recordar lo que hemos trabajo en nuestras guías anteriores, si gustas puedes recortar y pegar esta información en tu cuaderno de lo contrario transcríbela.

Recordemos…

Líneas y lugares de referencia del planeta Tierra

Nuestro planeta es muy grande y extenso. Por eso hemos creados diversas estrategias para ubicarnos en él. La geografía nos entrega herramientas, como la elaboración de mapas y el uso de los puntos cardinales, para este fin. Además de esto, también contamos con otras referencias o líneas imaginarias que sirven para ubicarnos de mejor manera. Las líneas de referencia son líneas imaginarias que se dibujan en los mapas. Si vamos al lugar físico, no vamos a encontrar una línea en el suelo. Las usamos para tener referencias de lugares y así poder describir más fácilmente dónde se encuentran los objetos, por ejemplo, islas, países, océanos, barcos, etc.

Los hemisferios: podemos dividir la Tierra en dos mitades: norte y sur. La línea imaginaria que las separa está al centro de la Tierra y se llama círculo del ecuador.

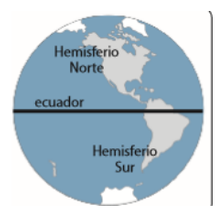

Todos los territorios que están al norte de esa línea imaginaria, pertenecen al hemisferio norte. Todos los territorios que están al sur de esta línea imaginaria, forman parte del hemisferio sur.

Los trópicos: son líneas imaginarias que están dibujadas a la misma distancia, al norte y al sur del círculo del Ecuador. La línea que está en el hemisferio norte se llama, trópico de Cáncer. La línea que está en el hemisferio sur se llama trópico de Capricornio.

Los polos: son los puntos de la superficie terrestre que están en el extremo norte y en el extremo sur del planeta. Son zonas muy frías. En el hemisferio

norte está el círculo polar Ártico. En hemisferio sur el círculo polar Antártico.

Ubica las líneas de referencia del planeta Tierra sobre el mapa, (círculo polar ártico, círculo polar antártico, línea del ecuador, trópico de Cáncer y trópico de Capricornio).

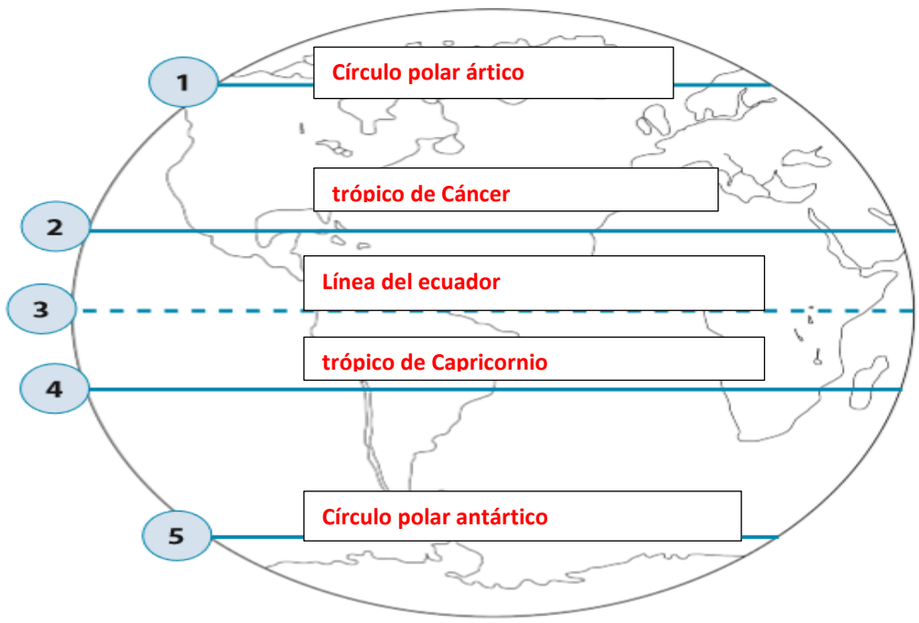

<u>Los continentes y los océanos del planeta Tierra</u>

La superficie de nuestro planeta se compone de tierra y agua. Los continentes son grandes extensiones de tierra y sobre ellos se ubican los diferentes países.

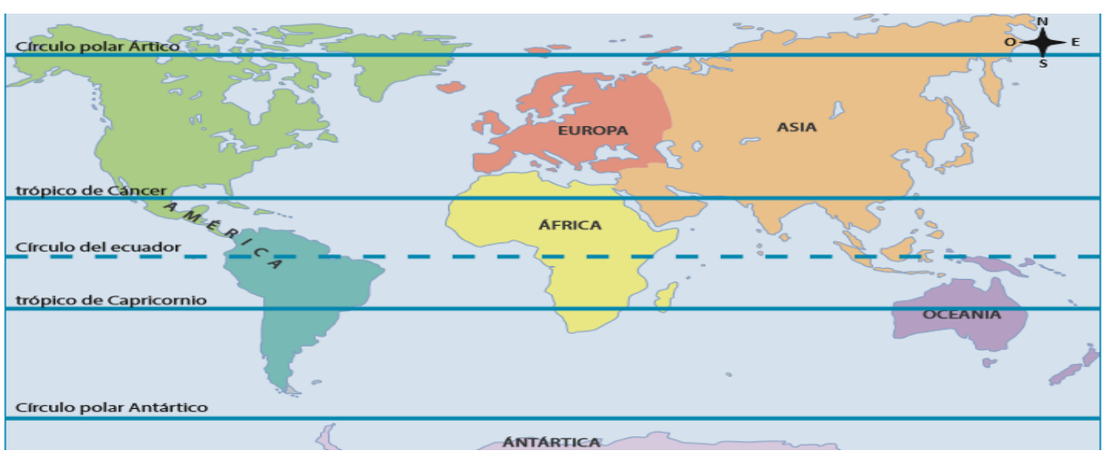

Por otro lado, los océanos son grandes extensiones de agua salada. Los nombres de los océanos son Pacífico, Atlántico, Ártico, Índico y Antártico

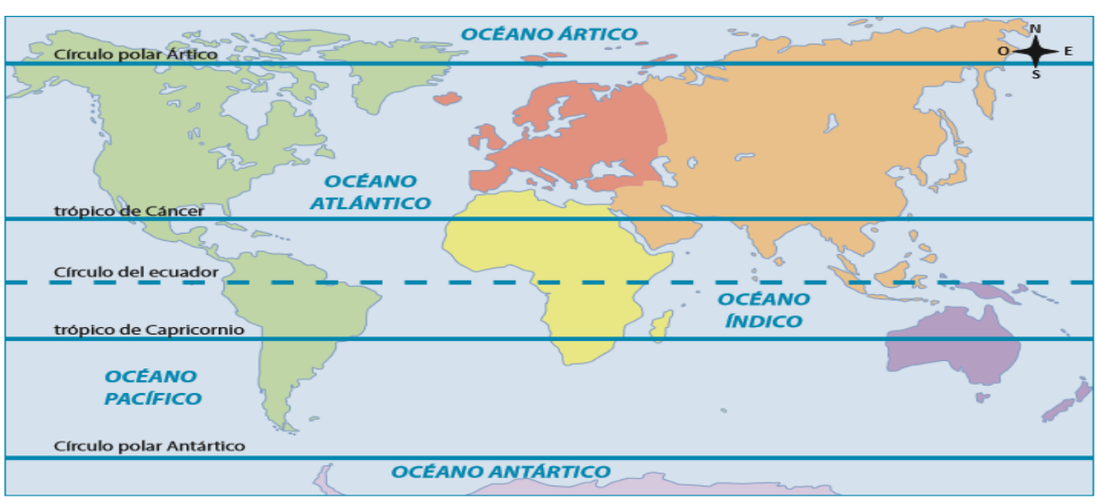

Encierra en un círculo todos los errores que encuentres en este mapa. Corrígelos en el mapa en blanco, distinguiendo océanos y continentes.

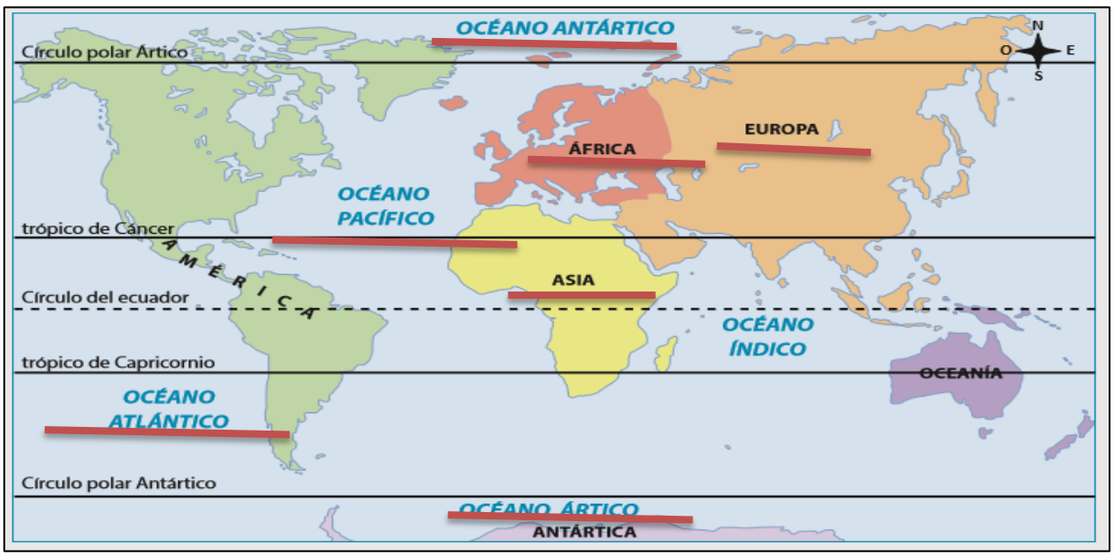

Escribe en el mapa los nombres que se solicitan.

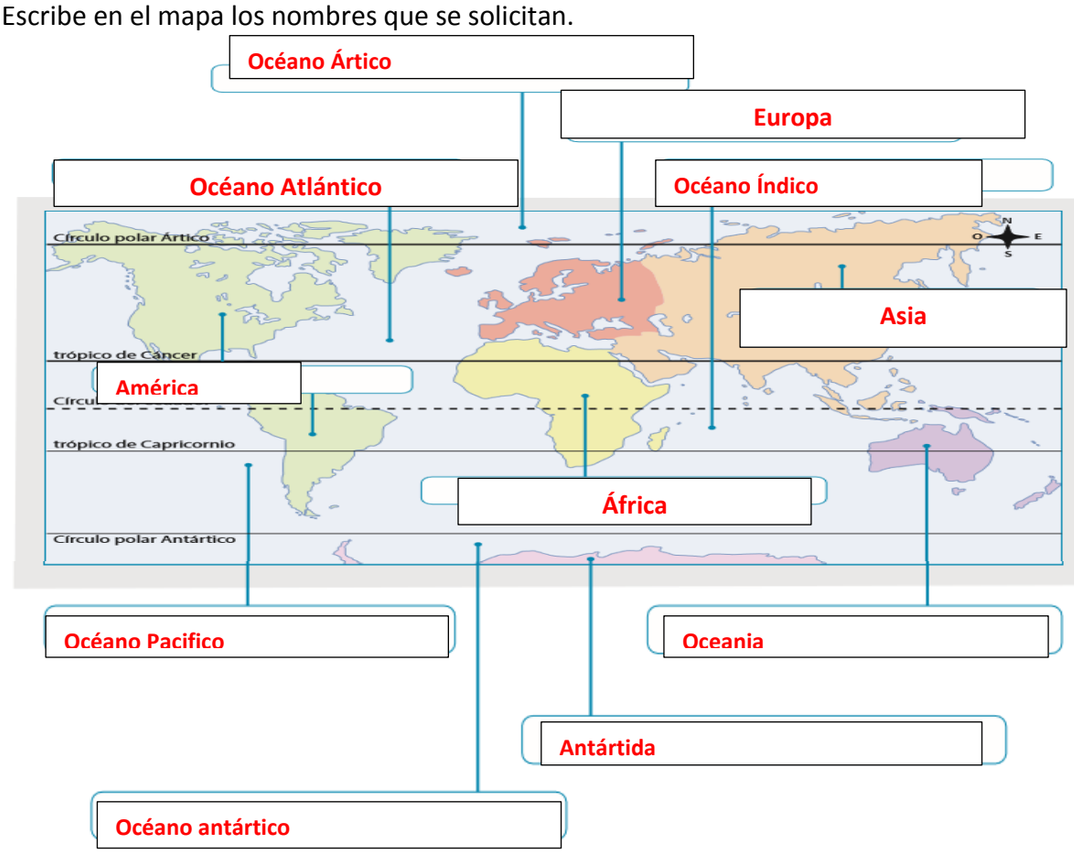

¡Muy buen trabajo!